前時のプリントです。復習で使用します。

地理　第3章　3節　4. 古都奈良・京都と歴史的景観の保全　　**No,24**

教科書P204～205　　組　　番　氏名

めあて　京都市の文化財や観光地を調べて、班別研修の見学地を決定しよう！

＜予想＞歴史的景観都市・国際観光都市・・・古都「奈良・京都」の遺産数を想像してみよう！

※ 重要文化財の割合…… 京都市（　16.5　%）　奈良市（　10　%）

※ 京都府の世界遺産の数は… 予想（　　）　実際（　17　）

※ 京都府の国宝の数は…… 予想（　　）　実際（　228　）

＜思考＞ 班員全員で修学旅行班別研修の見学地を決めよう！

〇班別研修の場所　京都市東山地区 地図参照
〇班別研修の時間　13 時から 17 時(4 時間)
〇スタート場所　JR京都駅　（烏丸通り側）
〇ゴール場所　〇〇ホテル(京都・祇園)
〇移動方法　徒歩・バス利用 可

＜知識＞ 京都市独特の住所
京都市下京区室町通 5 条下る大黒町
※ なぜこのような地名になるの？
→ 昔の(　条里制　)

① 京都市の地図を見て 東山地区の見学地の候補を決める（ 候補地…8 か所 ）
② 見学候補地の場所や特徴などを調べる（1 人が 2 か所の見学候補地を担当）
　※タブレットを利用して調査する
③ 班でお互いに見学候補地の調査内容を報告し 4 ヶ所の見学場所を決定する
④ 班別研修での見学場所の流れを決定する

3人班は 6か所

私たち班別研修は・・・

京都駅（徒歩・バス）→（①　　）
（徒歩・バス）→（②　　）
（徒歩・バス）→（③　　）
（徒歩・バス）→（④　　）
→ ホテル




教科書P204～205　　組　　番　氏名

めあて

Q. 奈良・京都　と　福岡ではどんな違いがある？

資料A・B を使って理由を説明しよう！

資料A
＜地方別重要文化財の割合＞
（単位%）

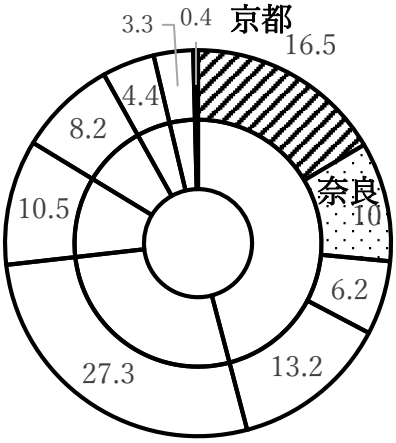

資料B
＜京都市を訪れる観光客数の変化＞

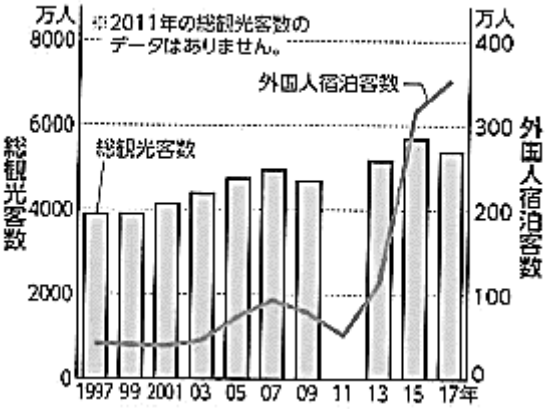

資料 C
＜訪日外国人におすすめの都道府県は？＞

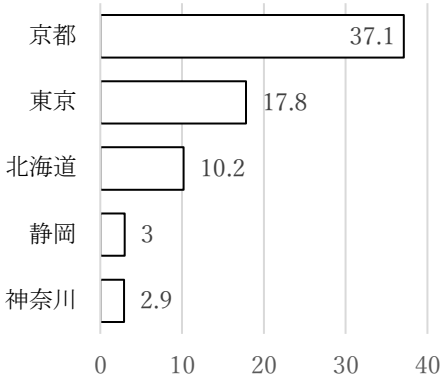

＜景観を守るために決めている条例は…＞

＜京都市の政策＞（一部　改）

- **周囲の町なみや自然景観となじむよう、建物の形や色を工夫する。**
- **京都のすぐれたながめを守るため、建物の高さや形を制限する。**
- **看板や点滅式の照明を禁止し、高さや大きさなどの規制を強化する。**
- **建物の外観の修理などに補助金を出す。**

	京都市	東京都
土地 100 万㎡に対して建ててよい面積の割合	80%まで	制限なし
それぞれの階の床面積の合計	400～700まで	200～1300まで

☆今の意見　私は…

賛成　反対

＿＿＿＿：＿＿＿で＿＿＿＿＿だ。

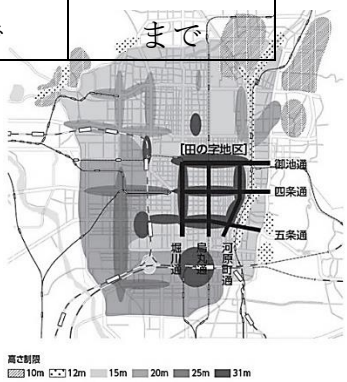

Q. あなたが京都の人だったら…

賛成派・反対派それぞれの意見を考えよう!!

賛成	反対

☆みんなの意見を聞いて　　私は…　賛成　反対

＿＿＿＿：＿＿＿で＿＿＿＿＿だ。

理由

＜タブレット　配布資料一覧＞

・奈良県にあるローソン

・京都（祇園）にある佐川急便

・京都　看板規制前（左：平成 16 年）と規制後（右：平成：24 年）



・京都　二年坂　電線地中化前（左）と電線地中化後（右）



・京都駅付近　高さ制限地図
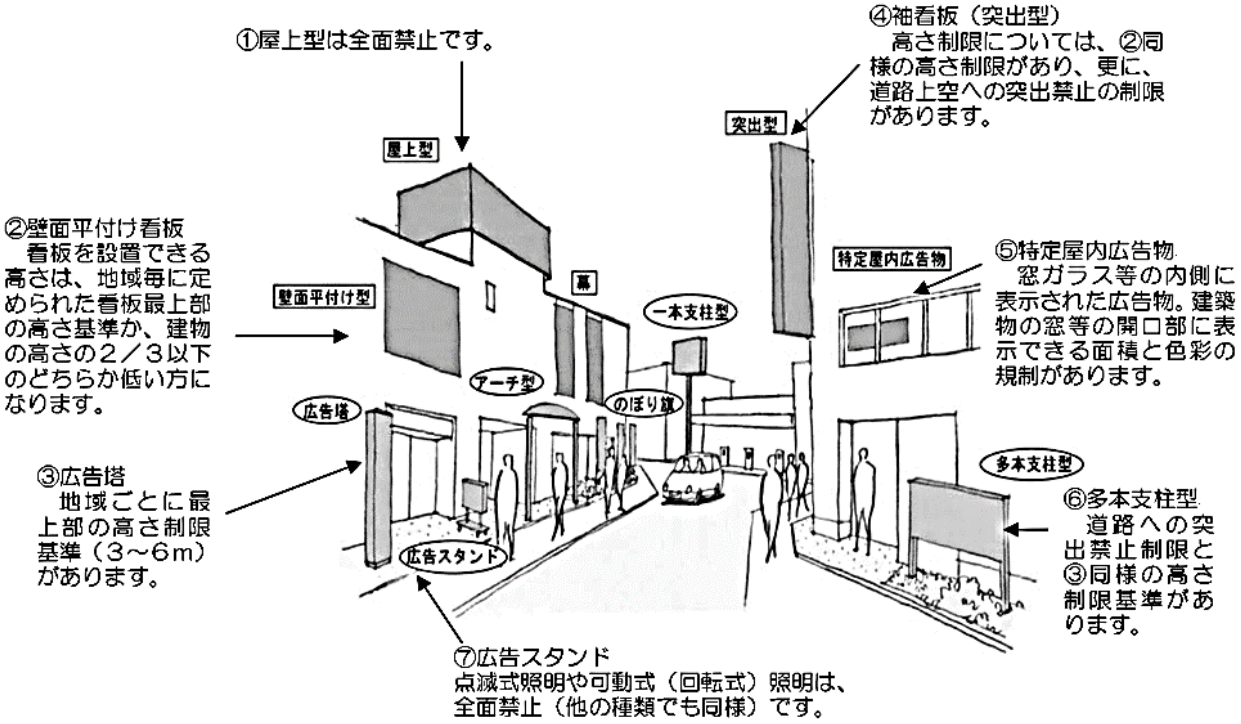
・京都　看板規制詳細